Klasa III - 16 marca 2020

1. EDUKACJA POLONISTYCZNA
   Podręcznik polonistyczno-społeczny część 2, strona 32-34, czytanka „O czterech muzykantach z Bremy” – przeczytaj tekst oraz w zeszycie odpowiedź na pytania ze strony 34.

2. EDUKACJA POLONISTYCZNA
   ćwiczenia polonistyczno-społeczne część 3 - wykonaj ćw. 1, 2 , str. 54.

3. EDUKACJA MATEMATYCZNA
   Przepisz do zeszytu lub jeśli masz możliwość wydrukuj i uzupełnij kartę pracy

Zadanie 1

Przyjrzyj się piramidzie i odgadnij według jakiej zasady są zapisane liczby. Uzupełnij brakujące liczby.

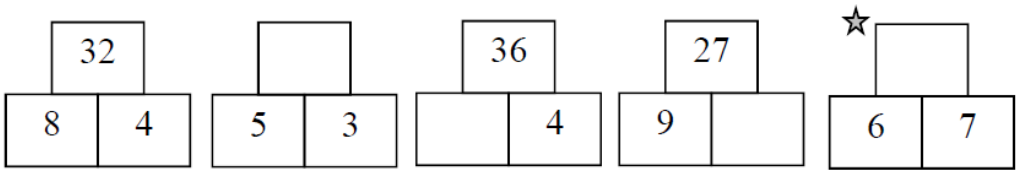

Zadanie 2

Zosia przygotowała przyjęcie dla 6 dziewczynek i 5 chłopców, dla każdego z dzieci upiekła po 2 babeczki czekoladowe i trzy waniliowe. Ile babeczek przygotowała Zosia c dziewczynek?

Obliczenie:

- Ile było przygotowanych wszystkich babeczek?

Obliczenie:

Odpowiedź:

Zadanie 3

Agnieszka wyjeżdżała do babci pociągiem odjeżdżającymi ze stacji 40 minut po 8. Jej podróż pociągiem trwała 3 godziny i 10 minut. O której godzinie pociąg dojechał na miejsce? Zaznacz na zegarach godzinę odjazdu i przyjazdu pociągu.



godzina odjazdu pociągu



godzina przyjazdy pociągu

Zadanie 4

Asia ma 9 lat. Jej siostra jest od niej starsza o 3lat. Mama Asi ma jeszcze raz tyle lat co razem Asia i jej siostra. Tata Asi jest od mamy starszy o 3 lata. Policz ile lat mają poszczególne osoby?

- Ile lat mają wszyscy razem?

Obliczenie:

Odpowiedź:

Zadanie 5

Rozszyfruj jakie liczby ukryły się pod figurami.

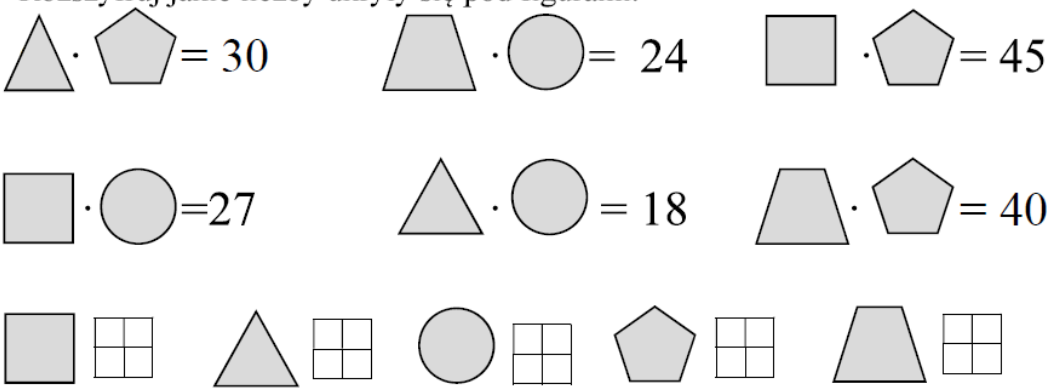

Zadanie 6

Ola przygotowała 35 jabłek na sok. Na jedną porcję soku potrzebuje 5 jabłek. Ile porcji soku przygotuje Ola z jabłek?

Obliczenie:

Odpowiedź:

Można poćwiczyć tabliczkę mnożenia
https://www.matzoo.pl/klasa3/tabliczka-mnozenia-test_14_187